825
K10853

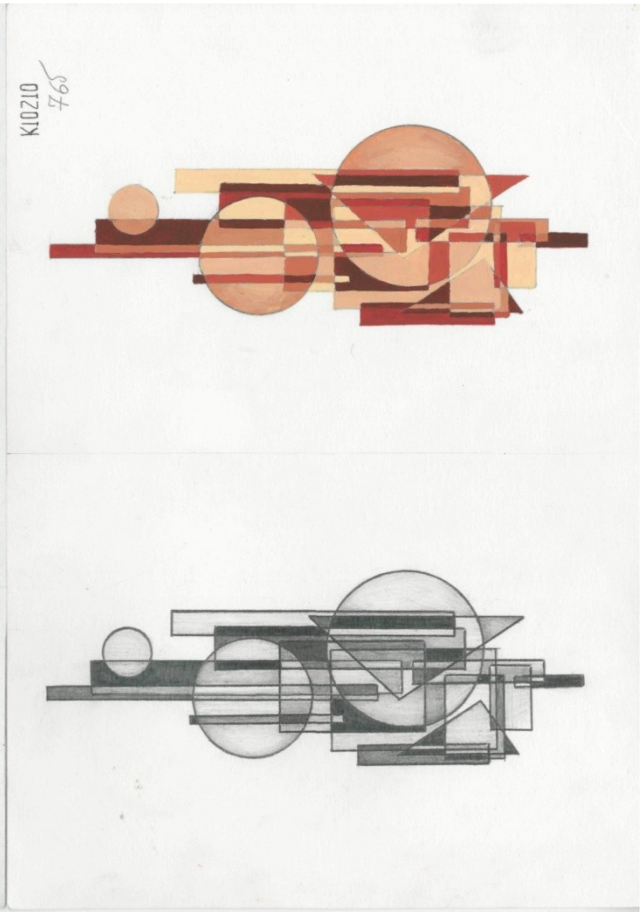
K10210
765


K 101037
775

11 класс (композиция в архитектуре)

С помощью простейших геометрических объемных фигур, используя их комбинацию между собой, врезки, а также членения, изобразить на листе бумаги композицию, выражающую состояние вертикального движения.

Работа выполняется в линейной графике простым карандашом без тоновой проработки на листе бумаги формата А4.

Критерии оценки

Оценка работы	Сочинение в эскизе	Выбор	Выразительность композиции	Графика	Компоновка листа	Итого
Максимальный балл	20	20	20	20	20	100
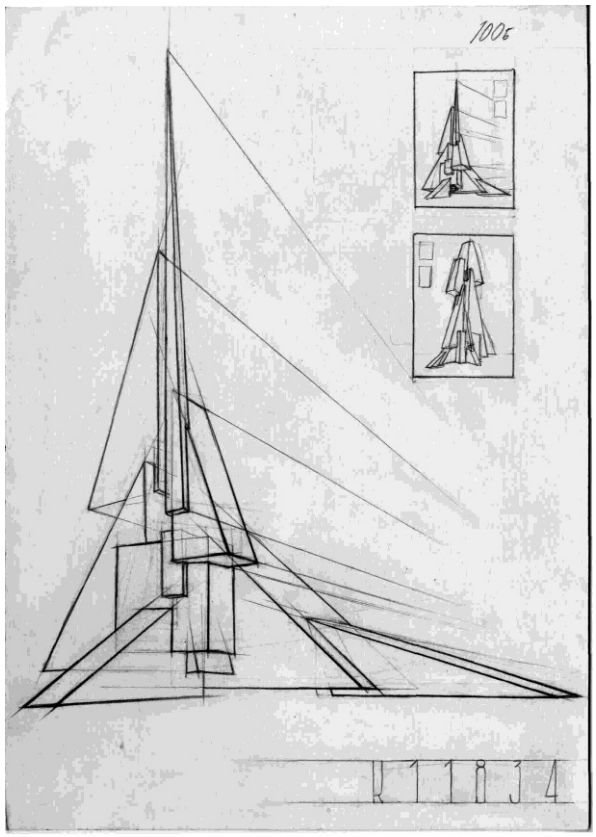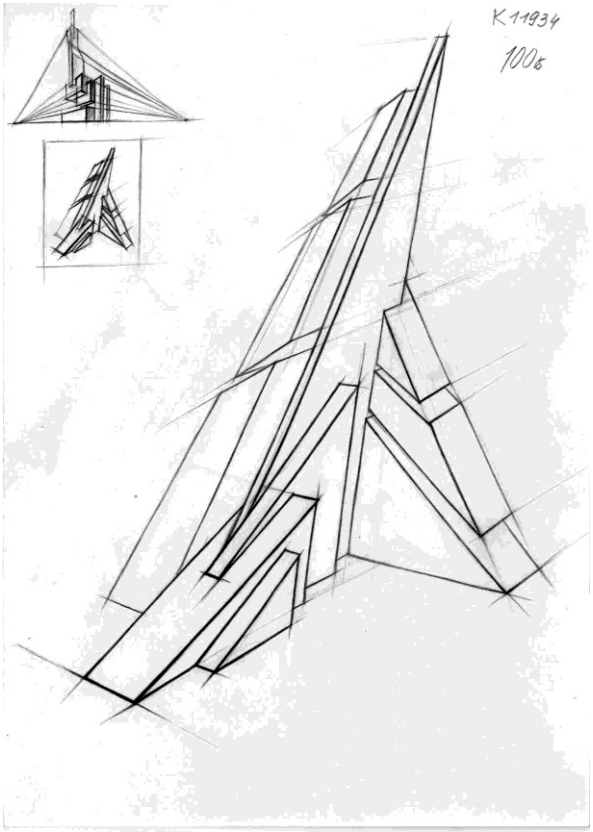
Примеры выполненных заданий: