ОТБОРОЧНЫЙ ЭТАП
ГЕРЦЕНОВСКОЙ ОЛИМПИАДЫ ШКОЛЬНИКОВ ПО ГЕОГРАФИИ 2015-16

Тест состоит из 39 вопросов и заданий.
Задания предполагают выбор одного или нескольких правильных ответов, формулировку краткого ответа или установление соответствия.
Каждый правильный ответ оценивается 2 баллами.
Максимальное количество баллов - 78.
С целью обеспечения равных возможностей участия школьников из различных регионов России в олимпиаде, отборочный этап проводится в дистанционной форме. В каждый блок загружается избыточное количество вариантов вопросов одного типа. Для каждого участника система автоматически создает новый вариант заданий каждого типа методом случайного выбора.

Вопрос 1

Выберите азимут, которому соответствует румб юго-юго-восток

Выберите один ответ:

- (●) 157,50°
- ( ) 135°
- ( ) 22,50°
- ( ) 202,50°

Вопрос 2

Определите страну, где расположен антипод (точка с противоположными географическими координатами) точки с координатами 55° ю.ш. 143° з.д.

Выберите один ответ:

- (●) **Россия**
- ( ) **Новая Зеландия**
- ( ) **Индия**
- ( ) **Куба**
- ( ) **Франция**
- ( ) **Бразилия**

Вопрос 3

Ты переместился от Гринвичского меридиана вдоль экватора в сторону Африки на 444 км, затем от экватора по меридиану к тропику Рака на 666 км и оказался в пункте с координатами...

Выберите один ответ:

- 4° ю.ш., 6° в.д.
- 6° ю.ш., 4° в.д.
- 6° с.ш., 4°в.д.
- 4° с.ш., 6°в.д.

Вопрос 4

Линии на карте, соединяющие точки с одинаковыми средними значениями температуры называются

Выберите один ответ:

- Изогиеты
- Изобаты
- Изобары
- Изотермы

Вопрос 5

Численный масштаб карты 1:10 000, соответствует именованному масштабу

Выберите один ответ:

- в 1см – 100 м.
- в 1см – 10000 м.
- в 1см – 10 м.
- в 1см – 1000 м.

Вопрос 6

Прибор, при помощи которого можно определить атмосферное давление воздуха

Выберите один ответ:

- Психрометр
- Анемометр
- Термометр
- Барометр

Вопрос 7

Выберите два верных утверждения

Выберите один или несколько ответов:

- [x] а. Точка росы это температура, до которой должен охладиться воздух, чтобы находящийся в нем водяной пар начал конденсироваться

b.

Испарение это количество воды, которое может испариться в данном месте за единицу времени

c.

Конденсация это процесс превращения водяного пара в лед

d.

Точка росы это процесс превращение водяного пара в воду

e.

Испарение это переход воды из жидкого состояния в газообразное

Вопрос 8

Выберите страну, ландшафт которой представлен на космическом снимке

Выберите один ответ:

- Нидерланды
- Монголия
- Тунис
- Литва
- Швейцария
- Катар

Вопрос 9

Пользуясь данными таблицы, определите, в каком климатическом поясе находится пункт, каков его тип климата:

месяц/ признаки	I	II	III	IV	V	VI	VII	VIII	IX	X	XI	XII	Год
t ºC	-23.1	-17.4	-8.8	2.8	10.9	16.7	20.2	19.6	13.6	4.2	-8.3	-19.4	0.9
осадки	5	5	7	24	65	120	140	130	49	34	15	8	602

Выберите один ответ:

a.

умеренный пояс – морской

b.

тропический пояс – континентальный

c.

умеренный пояс – муссонный

d.

субтропический пояс – средиземноморский

е.

экваториальный пояс – экваториальный

Вопрос 10

Установи соответствие между формами рельефа и процессами их создавшими

Терриконы	Ответ 1: Деятельность человека
Останцы	Ответ 2: Выветривание
Камы	Ответ 3: Деятельность ледника
Дюны	Ответ 4: Деятельность ветра
Сельги	Ответ 5: Деятельность ледника

Вопрос 11

Какую высоту в метрах относительно уровня Мирового океана имеет гора N если она на 2555 метров ниже Эвереста?

Ответ запишите одним числом.

Ответ: 6293

Вопрос 12

Установите соответствие между демографическими пирамидами и странами

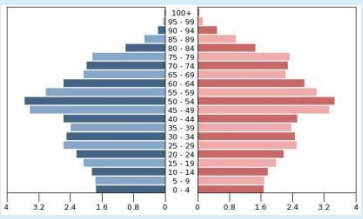
А.

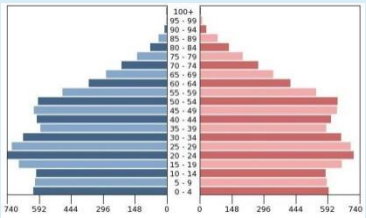
Б.

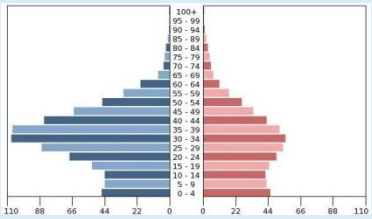
В.

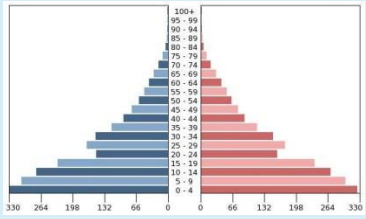
Г.

А	Ответ 1: Германия
Б	Ответ 2: Чили
В	Ответ 3: Бахрейн
Г	Ответ 4: Либерия

Вопрос 13. Выберите три страны входящих в первую десятку стран мира - крупнейших по численности населения

Выберите один или несколько ответов:

- [ ] a. Канада
- [x] b. Россия
- [x] c. Япония
- [ ] d. Мексика
- [ ] e. Германия
- [x] f. Индонезия
- [ ] g. Малайзия

Вопрос 14

В каком из высказываний содержится информация о миграциях населения?

Выберите один ответ:

- a. Средняя плотность сельского населения России составляет примерно 2,2 человека на 1 кв. км.
- b. Для некоторых стран Европы характерна естественная убыль населения.
- c. Население Италии увеличивается главным образом за счёт притока переселенцев из других стран.
- d. Свыше 50% населения Земли проживает в Азии. Это самый населённый регион мира.

Вопрос 15

Этногеографическая область компактного проживания курдов охватывает территории государств:

Выберите один ответ:

- a. Иран, Ирак, Йемен, ОАЭ
- b. Турция, Иран, Индия, Индонезия
- c. Иран, Ирак, Сирия, Турция
- d. Турция, Сирия, Израиль, Пакистан

Вопрос 16

Большинство верующих какого из перечисленных народов исповедуют христианство?

Выберите один ответ:

- a. Казахи
- b. Таджики
- c. Азербайджанцы
- d. Армяне

Вопрос 17

Какие три из перечисленных стран являются крупными производителями и экспортёрами алюминия?

Выберите один или несколько ответов:

- [x] a. Канада
- [x] b. Россия
- [ ] c. Перу

- [ ] d. Финляндия
- [x] e. Бразилия
- [ ] f. Германия

Вопрос 18

В каком из следующих утверждений содержится информация о проявлении международной экономической интеграции?

Выберите один ответ:

- ○ a. Наиболее компактную группу стран с отчётливо выраженной индустриальной структурой хозяйства образуют некоторые страны Восточной Европы и Ближнего Зарубежья.
- ◉ b. 12 стран входят в состав ОПЕК, целью которой является координация деятельности и выработка общей политики в отношении добычи нефти.
- ○ c. В последние два-три десятилетия в США, Японии и странах Западной Европы развитие чёрной и цветной металлургии резко замедлилось.
- ○ d. К группе наименее развитых стран относится около 40 стран с общим населением более 600 млн человек и среднедушевым ВВП 100–300 долл. в год.

Вопрос 19

Какие три из перечисленных стран являются крупными производителями и экспортёрами бананов?

Выберите один или несколько ответов:

- [x] a. Эквадор
- [ ] b. Португалия
- [ ] c. ЮАР
- [x] d. Бразилия
- [ ] e. Германия
- [x] f. Филиппины

Вопрос 20

Для какого народа данный продукт питания является традиционным?



Выберите один ответ:

- ○ молдоване
- ○ турки

- корейцы
- итальянцы
- якуты

Вопрос 21

Выберите из списка развивающихся стран государства которые относятся к группе беднейших стран

Выберите один или несколько ответов:

- [x] a. Бангладеш
- [x] b. Бутан
- [ ] c. Бразилия
- [ ] d. Мексика
- [x] e. Афганистан
- [ ] f. Индия

Вопрос 22

Установите соответствие между бывшими колониями и метрополиями

Бразилия	Ответ 1	Португалия
Тунис	Ответ 2	Франция
Венесуэла	Ответ 3	Испания
Нигерия	Ответ 4	Великобритания

Вопрос 23

Выберите название моста:

Выберите один ответ:

- Риальто
- Тауэрский
- Золотые ворота
- Дворцовый
- Крымский
- Карлов
- Ангелов

Бруклинский

Вопрос 24

Назовите столицу государства, обозначенного на карте желтым цветом

Ответ: Бангкок

Вопрос 25

Определи по описанию о каком государстве идет речь:

"Это островное азиатское государство - республика. Столица - один из крупнейших морских портов мира, носит то же название, что и государство. Страна не имеет не только минеральных ресурсов, но и значительных запасов пресной воды, поэтому полностью зависит от их импорта. Основным преимуществом страны является ее выгодное географическое положение, рабочая сила, налоговые льготы для иностранных компаний и банков. Государство относится к категории новых индустриальных стран мира, отрасли ее международной специализации - международная торговля, туризм, машиностроение "

Впиши название государства

Ответ: Сингапур

Вопрос 26

Установите соответствие между названием государства и его столицей

Мьянма	Ответ 1	Нейпьидо
Непал	Ответ 2	Катманду
Туркменистан	Ответ 3	Ашхабад
Пакистан	Ответ 4	Исламабад

Вопрос 27

Из перечисленных стран, в двух частях света находятся

Выберите один или несколько ответов:

- [ ] a. Канада
- [x] b. Египет
- [x] c. Дания
- [ ] d. Марокко
- [ ] e. Бразилия

Вопрос 28

Установите соответствие между регионом и страной:

Лотарингия	Ответ 1	Франция
Валенсия	Ответ 2	Испания

Шотландия	Ответ 3	Великобритания
Саар	Ответ 4	Германия
Валлония	Ответ 5	Бельгия
Кампания	Ответ 6	Италия

Вопрос 29

Установите соответствие между горными системами и цифрой на карте показывающей их расположение:

Верхоянский хребет	Ответ 1	2
Колымское нагорье	Ответ 2	6
плато Путорана	Ответ 3	4
Горы Бырранга	Ответ 4	1

Вопрос 30

Определи по описанию о каком субъекте Российской Федерации идет речь:

"Эта область выходит к границе России с тремя государствами. Национальный состав здесь однороден. Главными демографическими проблемами являются самый низкий в России естественный прирост и старение населения. Областной центр - один из древнейших городов России , крупный туристический центр, который расположен на берегах реки бассейна Атлантического океана."

Впиши название субъекта РФ

Ответ: Псковская область

Вопрос 31

Какой из перечисленных городов России самый восточный?

Выберите один ответ:

- a. Омск
- b. Томск
- c. Новосибирск

d. Тюмень

Вопрос 32

Установите соответствие между городами России и реками на которых они расположены

Пермь	Ответ 1: Кама
Киров	Ответ 2: Вятка
Барнаул	Ответ 3: Обь
Уфа	Ответ 4: Белая

Вопрос 33

Установите соответствие между названием республики в составе России и ее столицей

Республика Адыгея	Ответ 1: Майкоп
Республика Северная Осетия	Ответ 2: Владикавказ
Республика Бурятия	Ответ 3: Улан-Удэ
Удмуртская Республика	Ответ 4: Ижевск

Вопрос 34

Для какого народа данное кулинарное блюдо является традиционным?

СТРОГАНИНА

Выберите один ответ:

- коми
- карелы
- якуты
- даргинцы
- башкиры

Вопрос 35

Группа студентов из Санкт-Петербурга занимается изучением экосистем морских побережий. Какой из перечисленных заповедников им необходимо посетить для изучения прибрежных акваторий Берингова моря?

Выберите один ответ:

- a. Магаданский
- b. Дальневосточный морской

c. Кандалакшский

d. Командорский

Вопрос 36

Установите соответствие между мероприятием по улучшению качества почв и его названием.

пашня, оставляющаяся без посева с целью очищения почвы от сорняков и накопления питательных веществ	Ответ 1 пар
ежегодное научно обоснованное чередование сельскохозяйственных культур, с целью восстановления плодородия почвы	Ответ 2 севооборот
система мер по улучшению качества почв	Ответ 3 мелиорация
посев трав с целью повышения плодородия сельскохозяйственных угодий и для борьбы с эрозией	Ответ 4 залуживание

Вопрос 37

Используя таблицу, сравните обеспеченность стран лесными ресурсами.

Расположите страны в порядке уменьшения ресурсообеспеченности.

Страна	Размеры лесной площади, (млн.га.)	Численность населения, (млн. чел.)
Австралия	145,0	21
Канада	494,0	33
Перу	84,8	28

Перу	Ответ 1 3
Австралия	Ответ 2 2
Канада	Ответ 3 1

Вопрос 38

Установите соответствие между видами и характером природопользования

Создание системы особо охраняемых природных территорий	Ответ 1 Рациональное
Распашка склонов на возвышенностях	Ответ 2 Нерациональное
Разработка малоотходных технологий в	Ответ

промышленном производстве	3 Рациональное Ответ	
Рекультивация земель в районах добыча железной руды открытым способом	4 Рациональное Ответ	
Осушение болот в верховьях рек	5 Нерациональное	

Вопрос 39

Страны Магриба:

Выберите один или несколько ответов:

- [x] Тунис
- [x] Марокко
- [ ] Сомали
- [ ] Эфиопия
- [ ] Катар
- [x] Алжир